Egzamin pisemny na kartę rowerową (test 1)
w Szkole Podstawowej Nr 368 w Warszawie

Imię, nazwisko ucznia, klasa: ……

1 **Rowerzysta stwarza zagrożenie w ruchu:**
   a) trzymając kierownicę tylko jedną ręką przy sygnalizowaniu kierunku jazdy,
   b) wyprzedzając w terenie zabudowanym,
   c) jadąc nieoświetlonym rowerem w nocy.

2 **Rowerzysta wjeżdżając z drogi żwirowej:**
   a) jest włączającym się do ruchu,
   b) ma obowiązek zawsze się zatrzymać,
   c) ustępuje pierwszeństwa tylko pojazdom nadjeżdżającym z prawej strony.

3 **Znak ten oznacza:**
   a) przejście dla pieszych,
   b) przejazd dla rowerzystów,
   c) przejście dla pieszych i przejazd dla rowerzystów.

4 **Który z tych znaków informuje, że znajdujemy się na drodze głównej?**

a)

b)

c)

5 **Rowerzysta, widząc ten znak:**
   a) musi skręcić w lewo za znakiem,
   b) musi skręcić w lewo przed znakiem,
   c) może, z zachowaniem szczególnej ostrożności skręcić w prawo.

6 **Przejeżdżanie obok innego rowerzysty poruszającego się w kierunku przeciwnym to:**
   a) wymijanie,
   b) omijanie,
   c) wyprzedzanie.

7 **W tej sytuacji kierujący rowerem:**
   a) ustępuje pierwszeństwa pojazdowi z numerem 2,
   b) ustępuje pierwszeństwa pojazdowi z numerem 3,
   c) pojedzie jako pierwszy.

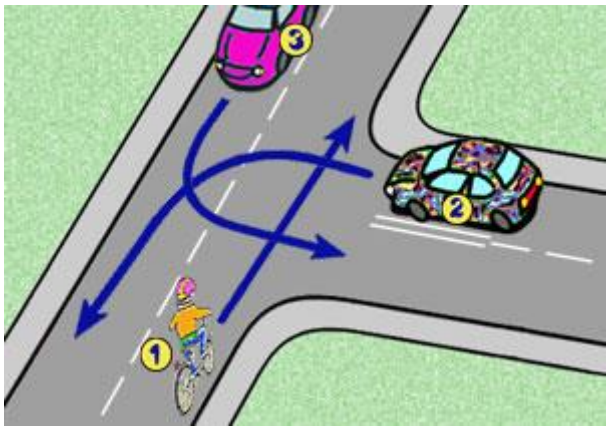

8 **W tej sytuacji kierujący rowerem:**

a) ustępuje pierwszeństwa pojazdowi z numerem 3,
b) ustępuje pierwszeństwa pojazdowi z numerem 2,
c) pojedzie jako pierwszy.

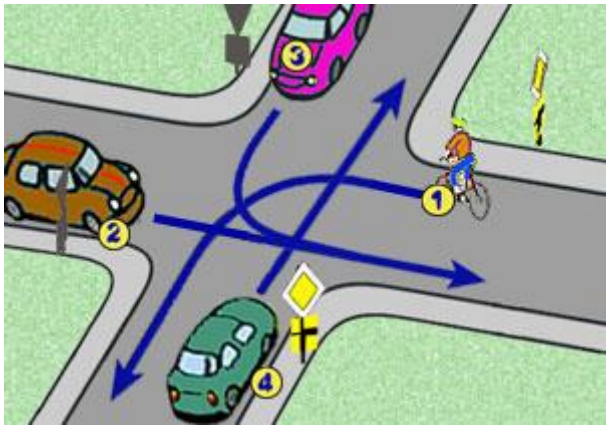

9 **Ten znak:**

a) oznacza drogę dla rowerów,
b) ostrzega o przejeździe dla rowerzystów,
c) oznacza zakaz ruchu rowerów.

10 **Kierującemu rowerem zabrania się:**

a) jechać w kolumnie rowerowej,
b) ciągnąć za sobą osobę na wrotkach, deskorolce czy hulajnodze,
c) wyprzedzać inne pojazdy.

11 **W tej sytuacji rowerzysta:**

a) musi ustąpić pierwszeństwa,
b) ma pierwszeństwo przejazdu,
c) powinien zasygnalizować lewą ręką.

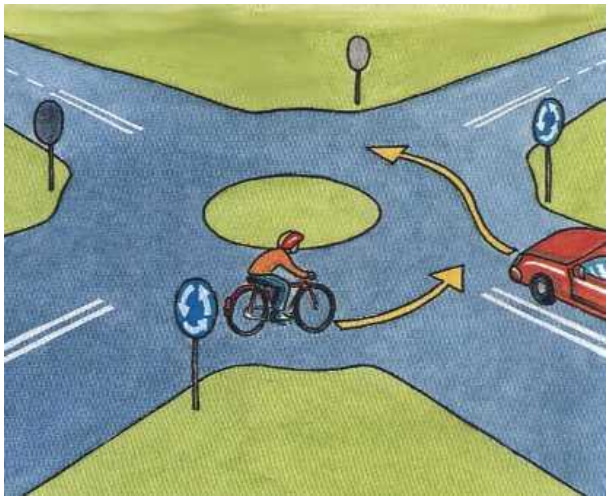

12 **Gdy policjant kieruje ruchem na skrzyżowaniu i stoi bokiem do naszego kierunku jazdy, to taką postawę policjanta można przyrównać do światła:**

a) zielonego,
b) żółtego,
c) czerwonego.

13 **Podaj kolejność stosowania się do znaków, norm, poleceń i sygnałów drogowych:**

a) policjant, sygnalizacja świetlna, przepisy, znaki drogowe,
b) policjant, sygnalizacja świetlna, znaki drogowe, przepisy,
c) sygnalizacja świetlna, policjant, znaki drogowe, przepisy.

14 **Kartę rowerową może uzyskać osoba która:**

a) przystąpiła tylko do egzaminu teoretycznego,
b) ma ukończone 8 lat i zna przepisy ruchu drogowego,
c) ma ukończone 10 lat i zdała egzamin.

15 **W tej sytuacji:**

a) rowerzysta pojedzie pierwszy, bo jedzie prosto i znajduje się po prawej stronie tramwaju,
b) kolejność będzie następująca: 2-3-1,
c) ostatni opuści skrzyżowanie pojazd nr 3.

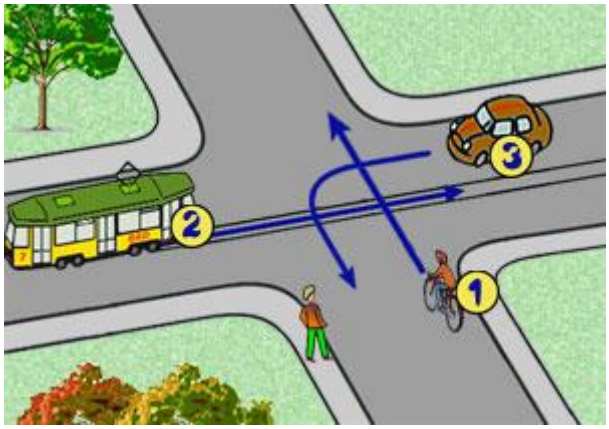

16 **W tej sytuacji kolejność przejazdu jest następująca:**

a) 3-1-2-4,
b) 3-1-4-2,
c) 3-4-1-2.

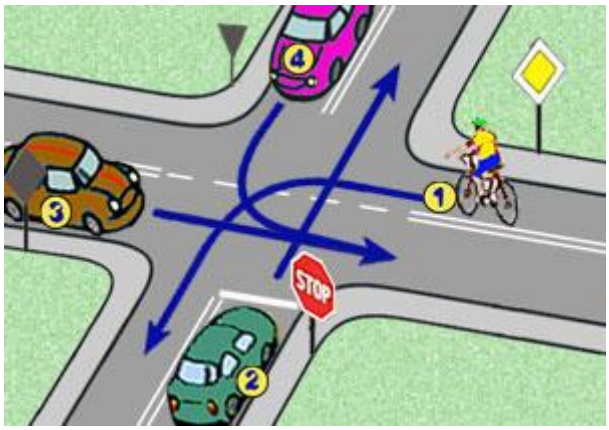

17 **Pierwsza pomoc w przypadkach oparzeń to:**

a) unikanie ochłodzenia oparzonej skóry,
b) polewanie miejsca oparzonego ciepłą wodą,
c) polewanie miejsca oparzonego zimną wodą.

18 **Opatrując ranę poszkodowanemu należy:**

a) nałożyć pakiet jałowej gazy lub inny czysty materiał i umocować,
b) zalać ranę gencjaną i pozostawić do czasu przybycia lekarza,
c) zdecydowanym ruchem usunąć ciała obce.

19 **Po jakich drogach nie można jeździć rowerami:**

a) po drogach osiedlowych,
b) po autostradach,
c) po drogach gruntowych.

20 **Telefon alarmowy numer 999 jest do:**

a) policji,
b) straży pożarnej,
c) pogotowia ratunkowego.

21 **Który ze znaków zabrania wjazdu rowerzystom?**

a)

b)

c)

22 **Widząc ten znak, kierujący powinien wiedzieć, że:**

a) wjeżdża właśnie na drogę jednokierunkową,
b) ma pierwszeństwo przejazdu na najbliższym skrzyżowaniu,
c) powinien przejechać na wprost przez skrzyżowanie.

23 **Przykładowe znaki drogowe pionowe są z grupy:**

a) znaków zakazu,
b) znaków nakazu,
c) znaków ostrzegawczych.

24 **Skrzyżowanie na którym nie ma znaków drogowych i sygnalizatorów świetlnych, nazywamy:**

a) skrzyżowaniem dróg równorzędnych,
b) skrzyżowaniem dróg równoległych,
c) skrzyżowaniem dróg prostopadłych.

25 **W tej sytuacji rowerzysta:**

a) powinien jechać po prawej stronie jezdni,
b) jedzie po przejeździe dla rowerzystów,
c) naruszył przepisy ruchu drogowego: powinien prowadzić rower po przejściu dla pieszych.